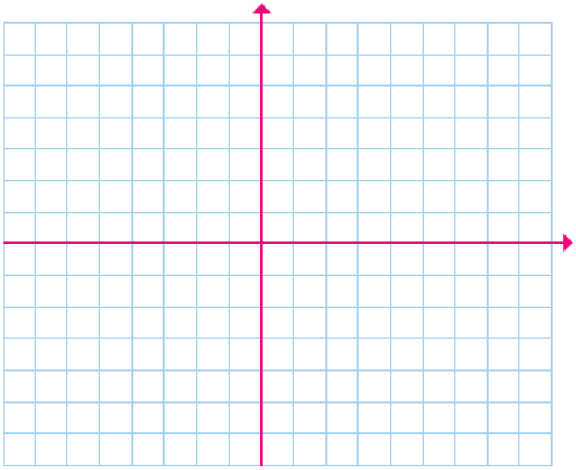


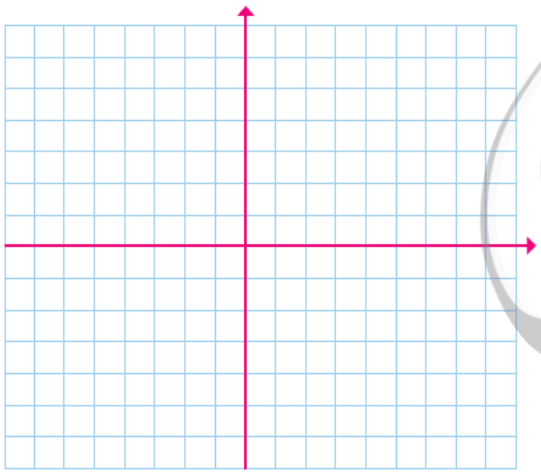
هم کلاسی

Hamkelasi.ir

جمهوری اسلامی ایران وزارت آموزش و پرورش آموزش و پرورش ناحیه ۴	دبیرستان دخترانه امام رضا علیه السلام (دوره دوم) -واحد ۷		بنیاد فرهنگی رضوی
نام و نام خانوادگی:	تعداد سئوالات : ۱۴	تعداد صفحات: ۴	
نام درس:ریاضی و آمار(۲) رشته :**انسانی** پایه: **یازدهم**	وقت پاسخگویی: ۱۱۰ دقیقه	تاریخ برگزاری: ۹۷/۰۳/۰۳	

ردیف		بارم
۱	**مفاهیم زیر را تعریف کنید.** الف) شاخص بهای کالا و خدمات ب) بیکار	۱
۲	**پرسش های چهار گزینه ای:** **(a)** کدام مورد زیر نادرست است؟ الف) $p \vee (\sim q \wedge \sim p) \equiv p \vee \sim q$ ب) $p \Longrightarrow (p \vee q)$ ج) $(p \wedge q) \Longrightarrow p$ د) $T \Longrightarrow p$ **(b)** در تابع $f(x) = [x] + [3x]$، مقدار $f\left(\frac{7}{3}\right) - f\left(\frac{1}{3}\right)$ کدام است؟ الف) ۲ ب) ۱ ج) ۳ د) ۸ **(c)** اگر ارزش گزاره $p \vee r$ به ارزش r بستگی داشته باشد و q گزاره ای دلخواه باشد، آنگاه گزاره $(q \vee r) \Longrightarrow \sim p$ هم ارز کدام است؟ الف) T ب) F ج) r د) q **(d)** معیار آماری که تغییرات نسبی در جامعه آماری را نشان می دهد ..... می گویند. الف) شاخص ب) خط فقر ج) مد د) میانگین **(e)** تابع f یک تابع همانی با دامنهٔ اعداد حقیقی است . حاصل $2f(3) + 5f(-1)$ الف) 10 ب) -1 ج) 11 د) 1 **(f)** اگر $f = \{(5,3),(7,4),(2,4),(0,3)\}$ و $g = \{(5,1),(3,4),(2,0)\}$ ، تابع $\frac{f}{g}$ کدام است؟ الف) $\frac{f}{g} = \{(1,3),(1,0)\}$ ب) $\frac{f}{g} = \{(5,1),(2,0)\}$ ج) $\frac{f}{g} = \{(5,3)\}$ د) $\frac{f}{g} = \{(5,3),(2,4)\}$	۳
۳	جاهای خالی را با عبارات مناسب پر کنید. الف)در نمودار شاخص بهای کالا ها و خدمات، محور طول ها نشان دهنده..... و محور عرض ها بیانگر ..... است. ب) تکرار یک ویژگی را در سری زمانی ..... می نامند. پ) اگر ارزش تالی در گزاره شرطی درست باشد، در هر صورت گزاره ی شرطی به ..... همواره درست است. ت) تغییر متوسط قیمت کالاها و خدمات در طول زمان را ..... می نامند.	۱/۲۵
۴	نقیض هر یک از گزاره های زیر را بنویسید. الف) ۱۱ اول نیست، اگر و تنها اگر، $\sqrt{3} \notin \square$ ب) انحراف معیار، جذر واریانس است و ۱۶، مربع کامل نیست. پ) اگر باران ببارد، آنگاه(چتر برمی دارم یا از منزل خارج نمی شوم.)	۱

ردیف	ادامه سوالات	بارم
۵	الف) اگر گزاره $[(p \wedge q) \Longrightarrow r] \sim$ درست باشد، ارزش گزاره زیر چیست؟ $\left[p \Longrightarrow (p \Leftrightarrow q)\right] \Longrightarrow \left[q \Leftrightarrow (p \Longrightarrow r)\right] \equiv ?$ ب) عکس نقیض گزاره شرطی زیر را بنویسید. $\left(\frac{1}{5} < \frac{1}{2}\right) \Longrightarrow [(\mathbb{N} \subseteq \mathbb{R}) \wedge (a \not\geq b)]$	1
۶	با استفاده از جدول ارزش گزاره ها درستی عبارت زیر را بررسی کنید. $\sim (p \Leftrightarrow q) \equiv (\sim p \Leftrightarrow q)$	۱
۷	الف) در استلال زیر را جاهای خالی را با عبارات مناسب پر کنید تا قیاس استثنایی کامل شود. مقدمه ۱: اگر احمد روزی ۳ ساعت مطالعه کند، در امتحان موفق خواهد شد. مقدمه ۲: ..... نتیجه :	۱
	ب) با توجه به استدلال زیر کدام گزینه نادرست است؟ مقدمه ۱: اگر مثلثی متساوی الاضلاع باشد، آنگاه متساوی الساقین هم خواهد بود. مقدمه ۲: مثلث ABC متساوی الساقین است. نتیجه: مثلث ABC متساوی الاضلاع است. الف) نام این استدلال مغالطه است. ب) نام این استدلال، قیاس استثنایی است. ج) روش این استدلال نادرست است. د) نتیجه این استدلال ممکن است درست باشد.	
۸	اگر $f(x) = x^2$ و $g(x) = sign(x)$ ، مطلوب است محاسبه ضابطه ، دامنه و برد و رسم تابع $f + g$. 	۲

ردیف	ادامه سوالات	بارم
۹	در تابع پلکانی $f(x)=\begin{cases}(a+3)x+\sqrt{5} & , \ x\geq 0\\ a & , \ x<0\end{cases}$ ، مقدار $f(1)$ را بیابید.	۰/۵
۱۰	الف) تابع $f(x)=\ \lvert -2x+6\rvert$ را به صورت یک تابع چند ضابطه ای بنویسید. ب) مقدار $f\left(\sqrt{12}\right)+f\left(\frac{1}{2}\right)-4\sqrt{3}$ را به دست آورید.	۱/۵
۱۱	نمودار تابع $f(x)=\ x+2[x]$ را در محدوده $-1\leq x<2$ رسم کنید . 	۱/۷۵
۱۲	الف) شاخص توده بدنی (BMI) فردی برابر ۲۵ می باشد. اگر قد او ۲ متر باشد، وزنش چند کیلوگرم است؟ ب) در یک شهر، ۱۵۰۰ نفر از افراد بالای ۱۶ سال، شاغل هستند. همچنین تعداد بیکاران این شهر ۵۰۰ نفر است.چند شغل جدید باید ایجاد شود تا نرخ بیکاری این شهر برابر با ۱ درصد شود؟	۱

ردیف	ادامه سوالات	بارم
۱۳	جدول زیر حقوق کارکنان یک شرکت و تعداد اعضای خانواده آن ها آمده است.مطلوب است: الف) محاسبه خط فقر به روش نصف میانگین و تعیین خانواده های زیر خط فقر به روش نصف میانگین ب) محاسبه خط فقر به روش نصف میانه و تعیین خانواده های زیر خط فقر به روش نصف میانه	۲
۱۴	سود چند سال یک شرکت در جدول زیر مشاهده می شود. الف) مقدار سود را در سال ۴ به روش درون یابی تخمین بزنید. ب) مقدار سود را برای سال۱۰ برون یابی کنید.	۲
	جمع:	۲۰
	در پناه پروردگار مهربان، پیروز و سربلند باشید.	

ردیف	درآمد ماهیانه (هزار تومان)	تعداد اعضای خانواده	متوسط درآمد هر عضو
۱	۱۸۰۰	۱	
۲	۱۶۰۰	۲	
۳	۱۲۰۰	۳	
۴	۳۶۰۰	۴	

سال x	۱	۳	۵	۷	۹
سود y (میلیون تومان)	۳	۴	8	۱۳	۱۲

جمهوری اسلامی ایران وزارت آموزش و پرورش آموزش و پرورش ناحیه ۲	دبیرستان دخترانه امام رضا علیه السلام (دوره دوم) - واحد ۷		
	پاسخنامه درس: ریاضی و آمار۲	نام دبیر: فرحناز امیدوار طهرانی	
	رشته: علوم انسانی / پایه: یازدهم	کلاس : ۱۱۷۱	تعداد سؤالات :۱۴

ردیف	پاسخنامه سوالات	بارم
۱	**مفاهیم زیر را تعریف کنید.** الف) شاخص بهای کالا و خدمات متوسط مبلغ پرداخت شده از سوی مصرف کنندگان برای مجموعه ای از کالا و خدمات در طول یک سال است. این شاخص تحولات قیمت را بر مبنای یک سال پایه نشان می دهد. ب) بیکار به فردی بالای ۱۶ سال می گویند که به طور موقت بیکار شده یا در جست و جوی شغل باشد، یا منتظر شروع یک کار جدید از تاریخ مشخصی باشد.	۱
۲	**پرسش های چهار گزینه ای:** **(a)** کدام مورد زیر نادرست است؟ سه جمله ای / ارزش ناصحیح / حرف عاطف الف) $p \vee (\sim q \wedge \sim p) \equiv p \vee \sim q$ ب) $p \Rightarrow (p \vee q)$ ج) $(p \wedge q) \Rightarrow p$ د) $T \Rightarrow p$ **(b)** در تابع $f(x) = [x] + [3x]$، مقدار $f\left(\frac{7}{3}\right) - f\left(\frac{1}{3}\right)$ کدام است؟ الف) ۲ ب) ۱ ج) ۳ د) ۸ $f(\frac{7}{3}) = 2+7 = 9$ $f(\frac{1}{3}) = 0+1 = 1$ **(c)** اگر ارزش گزاره $p \vee r$ به ارزش r بستگی داشته باشد و q گزاره ای دلخواه باشد، آنگاه گزاره $\sim p \Rightarrow (q \vee r)$ هم ارز کدام است؟ الف) T ب) F ج) r د) q گزاره شرطی با جمله تالی همواره درست **(d)** معیار آماری که تغییرات نسبی در جامعه آماری را نشان می دهد شاخص می گویند. الف) شاخص ب) خط فقر ج) مد د) میانگین **(e)** تابع f یک تابع همانی با دامنهٔ اعداد حقیقی است. حاصل $2f(3) + 5f(-1)$ الف) ۱۰ ب) -1 ج) ۱۱ د) ۱ $2(3) + 5(-1) = 6-5 = 1$ **(f)** اگر $f = \{(5,3), (7,4), (2,4), (0,3)\}$ و $g = \{(5,1), (3,4), (2,0)\}$، تابع $\frac{f}{g}$ کدام است؟ الف) $\frac{f}{g} = \{(1,3), (1,0)\}$ ب) $\frac{f}{g} = \{(5,1), (2,0)\}$ ج) $\frac{f}{g} = \{(5,3)\}$ د) $\frac{f}{g} = \{(5,3), (2,4)\}$	۳
۳	جاهای خالی را با عبارات مناسب پر کنید. الف) در نمودار شاخص بهای کالا و خدمات، محور طول ها نشان دهنده زمان (سال و ماه) و محور عرض ها بیانگر مقدار شاخص است. ب) تکرار یک ویژگی را در سری زمانی الگو می نامند. پ) اگر ارزش تالی در گزاره شرطی درست باشد، در هر صورت گزاره ی شرطی به صحت تالی همواره درست است. ت) تغییر متوسط قیمت کالاها و خدمات در طول زمان را تورم می نامند.	۱/۲۵

۴ (۱)

نقیض هر یک از گزاره های زیر را بنویسید.

الف) ۱۱ اول نیست، اگر و تنها اگر، $\sqrt{۳} \notin \mathbb{Q}$ $\sim$ (۱۱ اول است، اگر و تنها اگر $\sqrt{۳} \notin \mathbb{Q}$)

یا (۱۱ اول نیست، اگر و تنها اگر $\sqrt{۳} \in \mathbb{Q}$)

ب) انحراف معیار، جذر واریانس است و ۱۶، مربع کامل نیست. $\sim$ دهورزمان

انحراف معیار جذر واریانس نیست یا ۱۶ مربع کامل است

پ) اگر باران ببارد، آنگاه(چتر برمی دارم یا از منزل خارج نمی شوم.)

$\sim(p \to q_h) \equiv p \wedge \sim q_h$

باران می بارد و (چتر برمی دارم و از منزل خارج می شوم).

۵ (۱)

الف) اگر گزاره $\sim [(p \wedge q) \Rightarrow r]$ درست باشد، ارزش گزاره زیر چیست؟

$$\left[p \Rightarrow (p \Leftrightarrow q)\right] \Rightarrow \left[q \Leftrightarrow (p \Rightarrow r)\right] \equiv ?$$

$\equiv \; ⊤ \Rightarrow ⊥ \equiv ⊥$

ب) عکس نقیض گزاره شرطی زیر را بنویسید.

$$\left(\frac{۱}{۵} < \frac{۱}{۲}\right) \Rightarrow [(\mathbb{N} \subseteq \mathbb{R}) \wedge (a \geq b)]$$

عکس نقیض $p \to q_h \equiv \sim q_h \to \sim p$

$\sim [\mathbb{N} \subseteq \mathbb{R} \wedge a \geq b] \Rightarrow \sim \left(\frac{۱}{۵} < \frac{۱}{۲}\right)$

$\left(\mathbb{N} \not\subseteq \mathbb{R} \vee a < b\right) \Rightarrow \frac{۱}{۵} \not\geq \frac{۱}{۲}$

۶ (۱)

با استفاده از جدول ارزش گزاره ها درستی عبارت زیر را بررسی کنید.

$$\sim (p \Leftrightarrow q) \equiv (\sim p \Leftrightarrow q)$$

p	q_h	$\sim p$	$p \Leftrightarrow q$	$\sim (p \Leftrightarrow q)$	$\sim p \Leftrightarrow q$
⊤	⊤	⊥	⊤	⊥	⊥
⊤	⊥	⊥	⊥	⊤	⊤
⊥	⊤	⊤	⊥	⊤	⊤
⊥	⊥	⊤	⊤	⊥	⊥

۷ (۱)

الف) در استدلال زیر را جاهای خالی را با عبارات مناسب پر کنید تا قیاس استثنایی کامل شود.

مقدمه ۱: اگر احمد روزی ۳ ساعت مطالعه کند، در امتحان موفق خواهد شد.

مقدمه ۲: ...احمد روزی ۳ ساعت مطالعه می کند...

نتیجه : ...احمد در امتحان موفق می شود...

ب) با توجه به استدلال زیر کدام گزینه نادرست است؟

مقدمه ۱: اگر مثلثی متساوی الاضلاع باشد، آنگاه متساوی الساقین هم خواهد بود.

مقدمه ۲: مثلث ABC متساوی الساقین است.

نتیجه: مثلث ABC متساوی الاضلاع است.

الف) نام این استدلال مغالطه است.

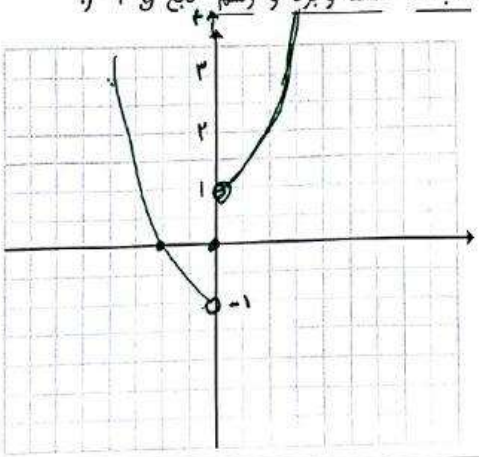
ب) نام این استدلال، قیاس استثنایی است.

ج) روش این استدلال نادرست است.

د) نتیجه این استدلال ممکن است درست باشد.

۸ — ۲

اگر $f(x)=x^2$ و $g(x)=sign(x)$، مطلوب است محاسبه ضابطه، دامنه و برد و رسم تابع $f+g$.



$$Sign(x)=\begin{cases}1 & ,\ x>0\\ 0 & ,\ x=0\\ -1 & ,\ x<0\end{cases}$$

$$f+g(x)=\begin{cases}x^2+1 & ,\ x>0\\ x^2 & ,\ x=0\\ x^2-1 & ,\ x<0\end{cases}$$

$$D_{f+g}=\mathbb{R}\ ,\ R_{f+g}=\{x\in\mathbb{R}\mid x\geq -1\}=[-1,+\infty)$$

۹ — ۰/۵

در تابع پلکانی $f(x)=\begin{cases}(a+3)x+\sqrt{5} & ,\ x\geq 0\\ a & ,\ x<0\end{cases}$، مقدار $f(1)$ را بیابید.

$$a+3=0 \Rightarrow a=-3$$

$$f(x)=\begin{cases}\sqrt{5} & ,\ x\geq 0\\ -3 & ,\ x<0\end{cases}\qquad f(1)=\sqrt{5}$$

۱۰ — ۱/۵

الف) تابع $f(x)=|-2x+6|$ را به صورت یک تابع چند ضابطه ای بنویسید.

$$f(x)=\begin{cases}-2x+4 & ,\ -2x+4\geq 0\\ 2x-4 & ,\ -2x+4<0\end{cases}\Rightarrow f(x)=\begin{cases}-2x+4 & ,\ x\leq 2\\ 2x-4 & ,\ x>2\end{cases}$$

$$-2x+4\geq 0\rightarrow -2x\geq -4\rightarrow x\leq 2$$

ب) مقدار $f\left(\sqrt{12}\right)+f\left(\frac{1}{2}\right)-4\sqrt{3}$ را به دست آورید.

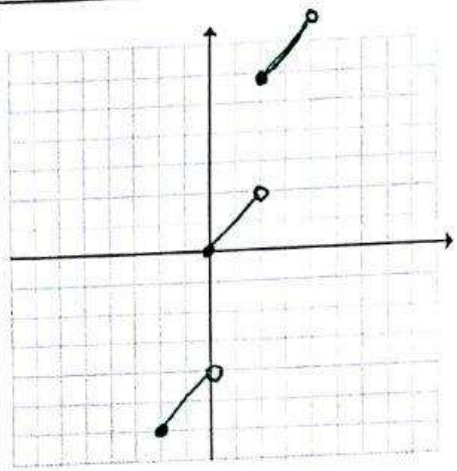
$$f(\sqrt{12})=2(\sqrt{12})-4=4\sqrt{3}-4$$

$$f\left(\frac{1}{2}\right)=2\left(\frac{1}{2}\right)+4=-1+4=5$$

$$f(\sqrt{12})+f\left(\frac{1}{2}\right)-4\sqrt{3}=4\sqrt{3}-4+5-4\sqrt{3}=1$$

۱۱ — ۱/۷۵

نمودار تابع $f(x)=x+2[x]$ را در محدوده $-1\leq x<2$ رسم کنید.



$$f(x)=\begin{cases}x-2 & ,\ -1\leq x<0\\ x & ,\ 0\leq x<1\\ x+2 & ,\ 1\leq x<2\end{cases}$$

x	-1	0^-
y	-3	-2

x	0	1^-
y	0	1

x	1	2^-
y	3	4

۱

الف) شاخص توده بدنی (BMI) فردی برابر ۲۵ می باشد. اگر قد او ۲ متر باشد، وزنش چند کیلوگرم است؟

$BMI = \frac{\text{وزن } kg}{(\text{قد})^2\ m^2} \Rightarrow 25 = \frac{\text{وزن}}{4} \rightarrow \text{وزن} = 100\ kg$

۱۲

ب) در یک شهر، ۱۵۰۰ نفر از افراد بالای ۱۶ سال، شاغل هستند. همچنین تعداد بیکاران این شهر ۵۰۰ نفر است. چند شغل جدید باید ایجاد شود تا نرخ بیکاری این شهر برابر با ۱ درصد شود؟

$\text{نرخ بیکاری} = \frac{\text{بیکار}}{\text{فعال}} \times 100$

$1 = \frac{500 - x}{1500 + 500} \times 100 \rightarrow 1 = \frac{500 - x}{2000} \times 100 \Rightarrow 20 = 500 - x \rightarrow x = 480$

۲

جدول زیر حقوق کارکنان یک شرکت و تعداد اعضای خانواده آن ها آمده است. مطلوب است:

الف) محاسبه خط فقر به روش نصف میانگین و تعیین خانواده های زیر خط فقر به روش نصف میانگین

ب) محاسبه خط فقر به روش نصف میانه و تعیین خانواده های زیر خط فقر به روش نصف میانه

ردیف	درآمد ماهیانه (هزار تومان)	تعداد اعضای خانواده	متوسط درآمد هر عضو
۱	۱۸۰۰	۱	۱۸۰۰
۲	۱۶۰۰	۲	۸۰۰
۳	۱۲۰۰	۳	۴۰۰
۴	۳۶۰۰	۴	۹۰۰

$n = 10$

۱۳

(الف)

$\bar{x} = \frac{1800 + 1600 + 1200 + 3600}{10}$

$\bar{x} = 820 \rightarrow \text{خط فقر} = \frac{820}{2} = 410$

خانواده شماره ۳ زیر خط فقر است.

(ب)

$1800 - 900 - 900 - 900 - 900 - 800 - 800 - 400 - 400 - 400$

$\text{میانه} = \frac{800 + 900}{2} = 850$

$\text{خط فقر} = \frac{850}{2} = 425$

خانواده شماره ۳ زیر خط فقر است.

۲

سود چند سال یک شرکت در جدول زیر مشاهده می شود.

سال x	۱	۳	۵	۷	۹
سود y (میلیون تومان)	۳	۴	۸	۱۳	۱۲

A B

الف) مقدار سود را در سال ۴ به روش درون یابی تخمین بزنید.

(الف)

$A\begin{vmatrix}3\\4\end{vmatrix}, B\begin{vmatrix}5\\8\end{vmatrix} \rightarrow m_{AB} = \frac{8-4}{5-3} = \frac{4}{2} = 2$

$y - y_A = m(x - x_A) \rightarrow y - 4 = 2(x-3) \rightarrow y = 2x - 6 + 4 \rightarrow y = 2x - 2$

$x = 4 \rightarrow y = 2(4) - 2 \rightarrow y = 6 \rightarrow$ تخمین سود شرکت در سال ۴

۱۴

ب) مقدار سود را برای سال ۱۰ برون یابی کنید.

(ب)

$\begin{cases} \bar{x} = \frac{1+3+5+7+9}{5} = \frac{25}{5} \rightarrow \bar{x} = 5 \\ \bar{y} = \frac{3+4+8+13+12}{5} = \frac{40}{5} \rightarrow \bar{y} = 8 \end{cases} \rightarrow \begin{vmatrix}5\\8\end{vmatrix}, \begin{vmatrix}9\\12\end{vmatrix} \rightarrow m = \frac{12-8}{9-5} = 1$

$y - 8 = 1(x - 5) \rightarrow y = x - 5 + 8 \rightarrow y = x + 3$

$x = 10 \rightarrow y = 10 + 3 \rightarrow y = 13 \rightarrow$ تخمین سود شرکت در سال ۱۰