هم کلاسی

Hamkelasi.ir

نام و نام خانوادگی:	بسمه تعالی	امتحانات ترم: دوم
نام درس: مطالعات اجتماعی	اداره کل آموزش و پرورش آذربایجان شرقی	تعداد صفحه: ۳
پایه:هفتم	آموزش و پرورش شهرستان بستان آباد	تاریخ امتحان: ۹۸/۰۳/۱۸
دبیر: اکبری	دبیرستان نمونه دولتی عترت	مدت پاسخگویی : 70 دقیقه

سال رونق تولید گرامی باد

ردیف	سوالات	بارم
	الف)سوألات صحیح- غلط	
	۱- در صحن مطهر امام رضا (ع) آرامگاه شیخ بهایی و خواجه نصیرالدین توسی قرار دارد. ص ☐ غ ☐ ۲- جاده شاهی به فرمان کوروش ساخته شد. ص ☐ غ ☐	۰,۵
	ب)سوألات چهارگزینه ای	
	۱- کدام دو مورد با یکدیگر ارتباط ندارند؟ الف) تمدن جیرفت - زابل ☐ ب) سیلک -کاشان ☐ ج) حسن لو - آذربایجان غربی ☐ د) تمدن ایلام -خوزستان ☐	۰,۷۵
	۲- کدام گزینه در مورد حکومت ها و بنیان گذاران شان نادرست است؟ الف) سلوکوس - سلوکیان ☐ ب) اردشیر بابکان - ساسانیان ☐ ج) اشک - هخامنشیان ☐ د) دهیوکَ - مادها ☐	
	۳- بیشترین حجم مالیات را در ایران باستان چه کسانی پراداخت می کردند؟ الف) بزرگان ☐ ب) دامداران ☐ ج) فرماندهان نظامی ☐ د) کشاورزان ☐	
	پ) جای خالی	
	مسؤلیت سرشماری در کشور ما بر عهده ..... است. شیوه حکومت در ایران باستان ..... بود. در دوره ی ساسانیان دین ..... ، دین رسمی کشور اعلام شد. مهم ترین قطب زیارتی کشور شهر..... است.	۲
	سوألات جورکردنی	
	شماره گزینه مرتبط با هر یک از عبارت های الف، ب، ج را مقابل آن بنویسید(زبان های ایرانیان در دوره های مختلف تاریخی) الف) هخامنشیان — فارسی دری ب)اشکانیان — پارسی میانه ج) دوره اسلامی — پارسی باستان	۰,۷۵
	پاسخ کوتاه	
	زرتشت به پیروان خود را به رعایت کدام اصول سفارش می کرد؟ وظیفه سازمان میراث فرهنگی چیست؟ اغلب رودهای دایمی و پرآب ایران از کدام کوهها سرچشمه می گیرند؟ چرا از حکومت هخامنشی به عنوان نخستین امپراطوری جهانی یاد می شود؟ پایتخت حکومت ها را بنویسید. اشکانیان: ..... مادها:.....	۳

فکر کنید و پاسخ دهید

۱	زهرا فرزند یک خانواده ۴ نفره است. او ۱۲ سال دارد و دانش آموز پایه هفتم است. او در هر یک از نقش های زیر چه مسوولیت هایی دارد؟ (هر کدام ۱ مورد) فرزند: خواهر : دانش آموز:	۰٫۷۵
۲	دو مورد از خدمات شهرداری بستان آباد را بنویسید. ۱- ۲-	۰٫۵
۳	عکس روبرو در مورد کدام طبقه ایران باستان است؟ ابتدا نام طبقه را بگویید و سپس اعضای طبقه را نام ببرید. 	۱٫۵
۴	درباره هر یک از موارد زیر پیشنهادی بدهید که آب کمتر مصرف شود. ۱- حمام کردن: ..... ۲- استفاده از ماشین لباسشویی:	۰٫۵
۵	آقای امیری یک مرد ۴۵ ساله و همسرش ۴۲ ساله هستند. آنها دو فرزند ۲ و ۸ ساله دارند. اعضای خانواده آنها در کدام گروه های سنی قرار می گیرند؟	۰٫۵
۶	شهردار جدید بستان آباد می خواهد ظرفیت های این شهر برای گردشگری را بهبود بخشیده تا مسافران زیادی را جذب کنند. به نظر شما گردشگری چه تاثیری می تواند در افزایش درآمد مردم شهرتان داشته باشد؟	۱
۷	عکس های روبرو را توضیح دهید. 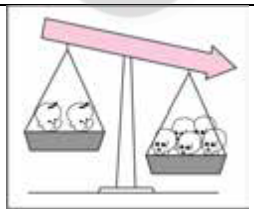 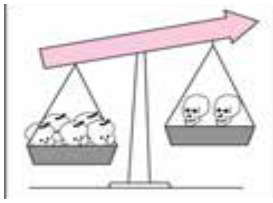	۱
۸	مریم علاقمند است در مورد اوضاع اجتماعی ایران در دوران باستان مطالعه کند. شما به او بگویید خانواده در ایران باستان چه جایگاهی داشته است؟	۱٫۵
۹	می دانید که میراث فرهنگی به ۲ نوع مادی مادی و غیر مادی تقسیم می شود. هر یک از انواع میراث فرهنگی ذکر شده از کدام نوع است؟ کتیبه ها : ..... مساجد : ..... زبان:	۰٫۷۵

پاسخ کامل		
۱	وضعیت پزشکی در زمان ایرانیان باستان چگونه بود ؟	۱
۲	سپاه جاویدان چگونه نیرویی بود؟	۱,۵
۳	از مراکز گردشگری ایران در زمستان و تابستان هر کدام ۱ مورد بنویسید. تابستان: ۱- زمستان:۱-	۰,۵
۴	شما به عنوان یک ایرانی چه وظیفه ای در برابر میراث فرهنگی دارید؟	۰,۵
	عزیزم موارد خواسته شده در نقشه را کامل کن	۱,۵

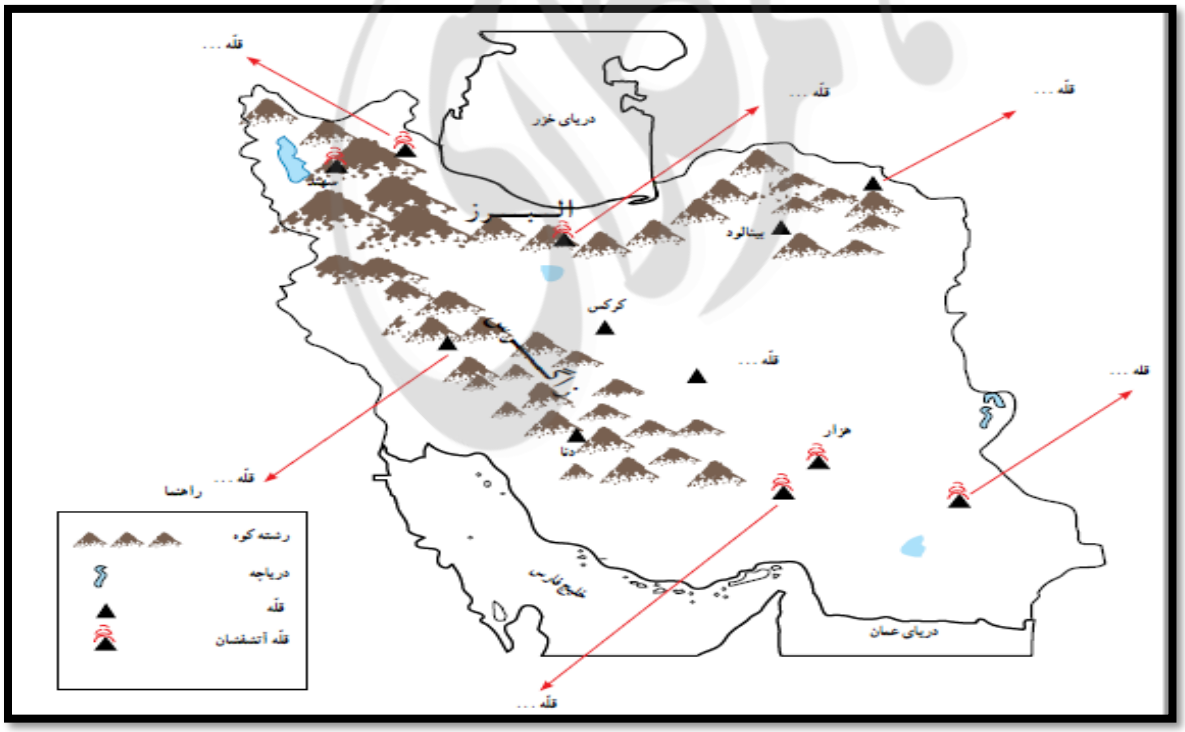

و من الله التوفیق	نمره با عدد	نمره با حروف	طراح : اکبری